Ulaşım Teknolojileri ve Kültürel Etkileşim

Çalışma Kâğıdı · 30 Soru · Kolaydan Zora

Ad Soyad _____ Sınıf / No _____ Tarih _____

KONU ÖZETİ

- **Teknoloji**, bilimsel bilgiyi kullanarak insan ihtiyaçlarını karşılayan araç, yöntem ve ürünlerin tümüdür. **Kültür**, bir toplumun geçmişten getirdiği maddi ve manevi değerlerin (dil, gelenek, yemek, giyim, müzik, inanç vb.) bütünüdür.
- Geçmişte ulaşımda insan ve hayvan gücü (at, deve), rüzgâr ve su akıntısı kullanılırdı. Motorlu araçların (tren, otomobil, gemi, uçak) icadıyla yolculuklar çok kısalmıştır.
- Seyahat sürelerinin kısalması, aynı sürede çok daha uzağa gidilebilmesi anlamına gelir; bu yüzden dünyanın **"küçüldüğü"** söylenir.
- Ulaşım kolaylaşınca insanlar farklı yerleri daha çok görür; ticaret, göç, eğitim ve turizm artar. Farklı toplumların birbirinden etkilenmesine **kültürel etkileşim** denir.
- Farklı kültürleri görme ve tanıma isteği **kültür turizmini** doğurmuştur. İyi bir ulaşım altyapısı tarihî ve kırsal yerlerin, festivallerin, yerel pazarların tanınmasını sağlar.
- Kültürel etkileşim olumlu (yeni bilgi ve ürünlerin tanınması, kültürümüzün tanıtılması) ya da olumsuz (millî kültürün yozlaşması) sonuçlar doğurabilir.

KOLAY Isınma Soruları (1–10)

1 Aşağıdakilerden hangisi geçmişte kullanılan, **doğadaki hazır güce** dayalı bir ulaşım aracıdır?

A) Elektrikli tren B) Yelkenli gemi C) Uçak D) Otomobil

2 Boşlukları doldurunuz.

a) Farklı toplumların birbirinden etkilenmesine kültürel ..... denir.

b) Farklı kültürleri görmek ve tanımak amacıyla yapılan gezilere ..... turizmi denir.

3 Aşağıdakilerden hangisi kültürün ögelerinden biri **değildir**?

A) Bir dağın yüksekliği B) Gelenek ve görenekler C) Yemekler D) Dil

4 İfadelerin doğru (D) ya da yanlış (Y) olduğunu belirtiniz.
(…) Motorlu ulaşım araçları seyahat sürelerini kısaltmıştır.
(…) Ulaşım teknolojileri kültürel etkileşimi azaltmıştır.
(…) Geçmişte at ve deve ulaşımda kullanılırdı.
(…) Ulaşımın gelişmesi turizmi artırmıştır.

5 Günümüzde kullanılan **üç** motorlu ulaşım aracı yazınız.

6 "Dünya küçülüyor." sözü ulaşım açısından ne anlama gelir?

A) Dünyanın gerçekten küçüldüğü
B) Ülkelerin sayısının azaldığı
C) Uzak yerlere çok daha kısa sürede ulaşılabildiği
D) Denizlerin daraldığı

7 Kavram haritasında boş kutulara ulaşımın gelişmesiyle artan etkinliklerden iki tanesini yazınız.



8 Başka bir ülkeden gelen bir yiyeceğin ülkemizde yaygınlaşması neyin örneğidir?

A) Vergi B) Doğal afet C) Seçim D) Kültürel etkileşim

9 Kültür turizmi kapsamında gezilebilecek **iki** yer ya da etkinlik türü yazınız.

10 Uzak bir şehirdeki akrabanızı ziyaret etmek için geçmişte ve günümüzde hangi ulaşım araçlarının kullanılabileceğini yazınız.

ORTA Pekiştirme Soruları (11–20)

11 Temsilî iki şehir arasındaki uzaklık **960 km**'dir. Günde **40 km** yol alan bir atlı yolcu bu mesafeyi kaç günde tamamlar?

12 Aynı 960 km'lik yolu saatte ortalama **120 km** giden hızlı tren ve saatte ortalama **80 km** giden otobüs kaçar saatte alır?

13 Zaman şeridinde ulaşım araçlarının gelişimi verilmiştir. Soru işaretli yere hangi ulaşım aracı gelmelidir?



A) Kervan B) Motorlu uçak ve otomobil C) Kayık D) At arabası

14 Kartlardaki örneklerin kültürün hangi ögesiyle ilgili olduğunu yazınız.

1	2	3
Yabancı turistlerin Türk kahvesini ve lokumu çok sevmesi	Yurt dışında yaşayan ailelerin bayramları birlikte kutlaması	Türkçe öğrenmek için ülkemize gelen yabancı öğrenciler

15 Ulaşım teknolojilerindeki gelişmelerin kültürel etkileşimi artırmasının **iki** nedenini yazınız.

16 Grafikte temsilî bir müzeyi dört yılda ziyaret eden yabancı turist sayıları (bin kişi) verilmiştir. Müzeye havalimanı yolu 3. yılın sonunda açılmıştır. Grafiğe göre aşağıdakilerden hangisi söylenebilir?

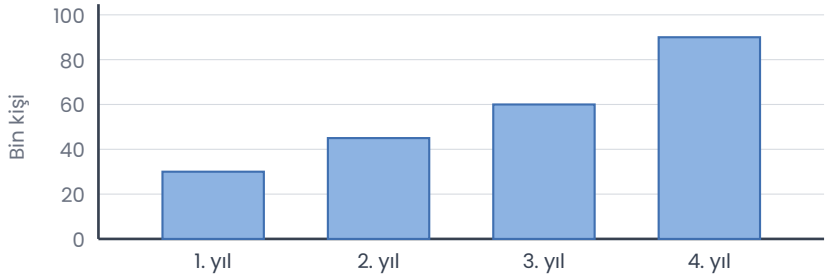

A) 2. yılda turist gelmemiştir.
B) Turist sayısı her yıl azalmıştır.
C) Turist sayısı yol açıldıktan sonra en büyük artışı göstermiştir.
D) Ulaşım, turist sayısını hiç etkilememiştir.

17 Ulaşım altyapısı zayıf olan tarihî bir köyün kültür turizminden yeterince yararlanamamasının nedenlerini yazınız.

18 Aşağıdakilerden hangisi ulaşımın gelişmesinin kültürel etkileşimdeki **olumlu** etkilerinden biridir?

A) Kültürümüzün başka ülkelerde de tanınması
B) Yöresel yemeklerin unutulması
C) Geleneklerin terk edilmesi
D) Yabancı sözcüklerin gereksiz kullanımı

19 Ulaşım teknolojilerinin gelişmesiyle **göçün** kolaylaşması kültürü nasıl etkiler? Bir örnekle açıklayınız.

20 Tabloda ulaşım araçları verilmiştir. Hangilerinin **insan ya da hayvan gücüyle**, hangilerinin **motor gücüyle** çalıştığını belirtiniz.

Ulaşım aracı	Güç kaynağı
Kağnı	.....
Vapur	.....
Kayık (kürekli)	.....
Kamyon	.....

ZOR Düşünme Soruları (21–30)

21 Temsilî 960 km'lik yol atlı yolcuyla 24 günde, hızlı trenle 8 saatte alınmaktadır. Hızlı tren yolculuğu, atlı yolculuktan kaç saat daha kısadır? (1 gün = 24 saat)

22 Metni okuyunuz.
Temsilî bir kasabaya hızlı tren hattı yapılınca kasabadaki geleneksel çömlek pazarını görmeye gelenler artmıştır. Çömlekçiler yeni desenler denemeye başlamış, bazı ziyaretçiler çömlek yapımını öğrenmek için atölyelere katılmıştır. Kasabada yabancı dil bilen rehber sayısı da artmıştır.
Metne göre aşağıdakilerden hangisine **ulaşılamaz**?

A) Ulaşımın gelişmesi kültür turizmini artırmıştır.
B) Kültürel etkileşim yerel el sanatlarını etkilemiştir.
C) Turizme bağlı meslekler gelişmiştir.
D) Hızlı tren kasabadaki bütün meslekleri ortadan kaldırmıştır.

23 Tabloda temsilî yolculuk süreleri verilmiştir. Bu tabloyu kullanarak "dünya küçülüyor" düşüncesini açıklayınız.

Ulaşım aracı	960 km'lik yolun süresi
At	24 gün
Otobüs	12 saat
Hızlı tren	8 saat
Uçak	80 dakika

24 Kültürel etkileşimin millî kültürümüze **olumsuz** etkilerinden ikisini yazınız ve bu etkileri azaltmak için neler yapılabileceğini belirtiniz.

25 Aşağıdakilerden hangisi kültürel etkileşimin iki yönlü olduğunu gösteren bir örnektir?

A) Bir köyde yıllardır aynı el sanatının yapılması
B) Yurt dışındaki kentlerde Türk mutfağı restoranlarının açılması, ülkemizde de farklı mutfakların tanınması
C) Bir dağın zirvesine teleferik yapılması
D) Bir ırmak üzerine köprü inşa edilmesi

26 Grafikteki temsilî verilere göre (16. soru) 4. yıldaki turist sayısı, 1. yıldakinin kaç katıdır? Artışın bir nedenini tahmin ediniz.

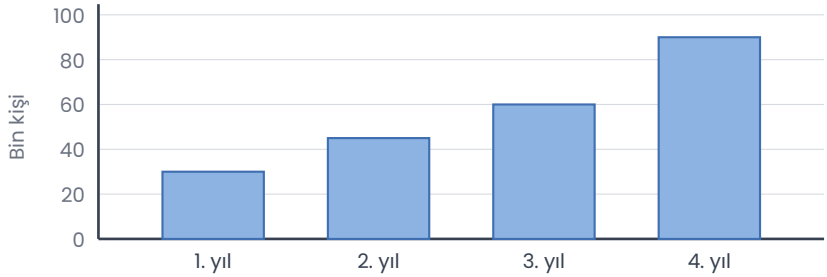

27 Kartlardaki öğrenci görüşlerinden hangisine katılırsınız? Gerekçenizi yazınız.

Ceren	Tolga
Ulaşım geliştikçe kültürler birbirine benzeyecek, farklılıklar kaybolacak.	Ulaşım sayesinde kültürümüzü koruyup dünyaya tanıtabiliriz.

28 Gelecekte ulaşım araçlarında ne gibi değişimler olabilir? Bu değişimlerin insanların kültürel etkileşimini nasıl etkileyeceğini tahmin ediniz.

29 Geçmişte kervanlarla yapılan uzun yolculuklarda farklı toplumlar arasında ürünlerin yanı sıra bilgi, sözcük ve gelenekler de taşınırdı. Günümüzde bu etkileşim nasıl değişmiştir? Hız ve yaygınlık açısından karşılaştırınız.

30 Yaşadığınız ilin kültür turizmine katkı sağlayabilecek **bir** kültürel değerini yazınız. Bu değerin daha çok kişi tarafından tanınması için ulaşımla ilgili bir öneride bulununuz.

Takıldığın soruyu işaretle, konu özetine tekrar göz at. Başarılar!
Diğer konuların çalışma kâğıtları ve deneme sınavları: **maarifpdf.com.tr**