Ülkemizin Kaynakları ve Ekonomik Faaliyetler

Çalışma Kâğıdı · 30 Soru · Kolaydan Zora

Ad Soyad _____ Sınıf / No _____ Tarih _____

KONU ÖZETİ

- İnsanların ihtiyaçlarını karşılamak ve gelir elde etmek için yaptığı üretim, dağıtım ve tüketim etkinliklerine **ekonomik faaliyet** denir. Ülkemizin doğal kaynakları çok çeşitli ekonomik faaliyetlere imkân verir.
- **Toprak:** Toprak ve iklim çeşitliliği sayesinde tarım ürünleri çeşitlidir. Örnekler: Rize'de çay, Karadeniz kıyısında fındık, Çukurova'da pamuk, Konya'da tahıl, Malatya'da kayısı. Topraklar hayvancılık ve arıcılıkta da kullanılır.
- **Su:** Üç tarafımız denizlerle çevrilidir. Denizler ve akarsular balıkçılık, deniz ulaşımı ve ticareti, yaz turizmi, sulama, **hidroelektrik** enerji üretimi için kullanılır; sıcak su kaynakları termal turizmi sağlar.
- **Orman:** Ormanlar kıyı bölgelerinde yoğundur. Kereste, mobilya, kâğıt sanayisine ham madde sağlar; millî parklar turizme katkı sunar.
- **Maden:** Ülkemiz maden çeşitliliği bakımından zengindir ve dünyanın en büyük **bor** rezervlerine sahiptir. Zonguldak'ta taş kömürü, Batman'da petrol, Afyonkarahisar'da mermer, Sivas Divriği'de demir çıkarılır.
- Kaynaklarımızı bilinçli kullanmak ve korumak **vatanseverliğin** bir gereğidir; kaynaklar gelecek kuşaklara aktarılmalıdır.

KOLAY Isınma Soruları (1–10)

1 Ürünleri yetiştirildiği yerlerle eşleştiriniz.
1) Çay 2) Kayısı 3) Pamuk 4) Fındık
a) Malatya b) Çukurova c) Rize ç) Karadeniz kıyıları (Ordu, Giresun)

2 Aşağıdakilerden hangisi **su kaynaklarına** dayalı bir ekonomik faaliyettir?
A) Kerestecilik B) Mermer işletmeciliği C) Balıkçılık D) Tahıl tarımı

3 Boşlukları doldurunuz.
a) Ülkemiz dünyanın en büyük ..... rezervlerine sahiptir.
b) Akarsular üzerine kurulan barajlarda ..... enerji üretilir.

4 Aşağıdaki eşleştirmelerden hangisi **yanlıştır**?

A) Zonguldak – taş kömürü
B) Rize – bor
C) Afyonkarahisar – mermer
D) Batman – petrol

5 İfadelerin doğru (D) ya da yanlış (Y) olduğunu belirtiniz.

(…) Ormanlar mobilya ve kâğıt sanayisine ham madde sağlar.
(…) Ülkemizde ormanlar en çok iç bölgelerde yoğunlaşır.
(…) Sıcak su kaynakları termal turizmde kullanılır.
(…) Arıcılık, bitki çeşitliliği fazla olan yerlerde gelişir.

6 Orman kaynaklarına dayalı **üç** ekonomik faaliyet ya da sanayi kolu yazınız.

7 Kavram haritasında boş bırakılan kutuya hangi doğal kaynak yazılmalıdır?



8 Aşağıdakilerden hangisi **maden kaynaklarına** dayalı bir ekonomik faaliyettir?

A) Kömür ocağında üretim
B) Fındık tarımı
C) Rafting turizmi
D) Seracılık

9 Yaşadığınız çevrede yapılan **iki** ekonomik faaliyeti ve dayandıkları doğal kaynakları yazınız.

10 Denizlerimizin ekonomik faaliyetlere katkısını gösteren **iki** örnek yazınız.

ORTA Pekiştirme Soruları (11–20)

11 Tablodaki ekonomik faaliyetlerin hangi doğal kaynağa dayandığını yazınız.

Ekonomik faaliyet	Doğal kaynak
Isparta'da gül yetiştirilip gül yağı üretilmesi	.....
Sinop kıyılarında balık avcılığı	.....
Eskişehir'de lületaşından süs eşyası yapılması	.....
Bolu çevresinde kereste üretimi	.....

12 Toprak ve iklim çeşitliliğinin ülkemizdeki tarım ürünlerini nasıl etkilediğini açıklayınız.

13 Grafikte temsilî bir kasabada çalışanların ekonomik faaliyetlere göre dağılımı verilmiştir. Çalışanların yüzde kaçı **turizmde** çalışmaktadır?

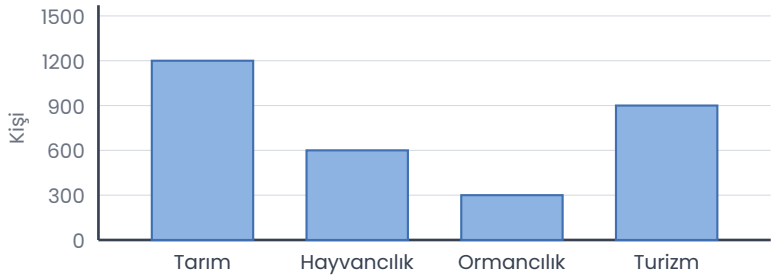

14 Aşağıdakilerden hangisi tarım ürünlerinin **sanayide ham madde** olarak kullanılmasına örnektir?

A) Barajda su biriktirilmesi
B) Balıkların denizde avlanması
C) Ormanda yürüyüş yapılması
D) Pamuktan kumaş üretilmesi

15 Şemada bir tarım ürününün sofraya ulaşma süreci verilmiştir. Soru işaretli aşamaya ne yazılmalıdır?

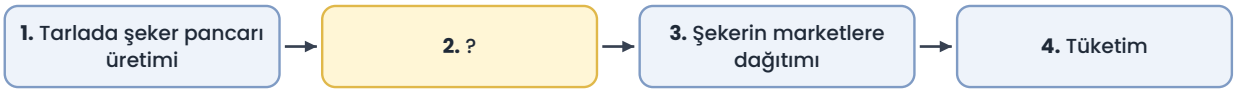

16 Bor madeni neden ülkemiz için önemli bir kaynaktır? **İki** gerekçe yazınız.

17 Kartlarda üç ilin tanıtımı yapılmıştır. Kartlarda hangi doğal kaynağa dayalı ekonomik faaliyetin öne çıktığını yazınız.

İl 1	İl 2	İl 3
Kıyılarında hamsi avcılığı yapılır, balıkçı barınakları vardır.	Dağlık alanlarında kömür ocakları ve maden işletmeleri vardır.	Geniş ovalarında buğday ve arpa yetiştirilir.

18 Akarsular üzerine kurulan barajların **iki** ekonomik faydasını yazınız.

19 Aşağıdaki durumlardan hangisi kaynakların **bilinçli kullanımına** örnektir?

A) Tarlada gereğinden fazla su kullanmak
B) Balıkları üreme döneminde avlamak
C) Ormanlık alanda ateş yakmak
D) Damla sulama yöntemiyle su tasarrufu yapmak

20 Sıcak su (termal) kaynaklarının ekonomik faaliyetlerde nasıl kullanıldığına **iki** örnek veriniz.

ZOR Düşünme Soruları (21–30)

21 Metni okuyunuz.
Temsilî bir kasabada yaşayan Mehmet Bey, dedesinden kalan boş tarlada kuraklığa dayanıklı kekik ve lavanta yetiştirmeye başlamıştır. Bitkilerden yağ çıkaran küçük bir atölye kurmuş, ürünlerini genel ağdan satmaktadır. Tarlalarının çevresine arı kovanları da yerleştirmiştir.
Metinde hangi ekonomik faaliyetler yer almaktadır?

A) Tarım, sanayi, ticaret ve arıcılık
B) Madencilik ve balıkçılık
C) Ormancılık ve deniz ulaşımı
D) Yalnızca turizm

22 Grafikteki temsilî verilere göre (13. soru) tarım ve hayvancılıkta çalışanların toplamı, turizmde çalışanların kaç katıdır?

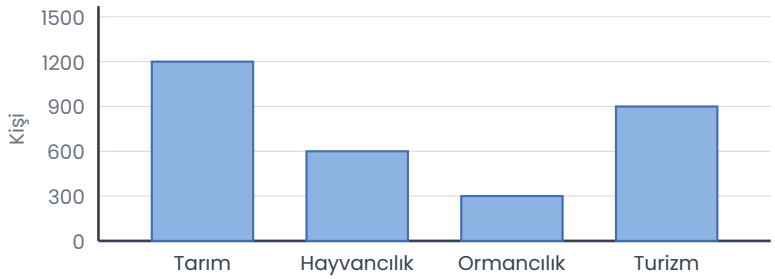

23 Bir ilde orman alanları geniş, yağış fazla ve kıyı uzun ise bu ilde hangi ekonomik faaliyetlerin gelişmesi beklenir? En az **üç** faaliyet yazıp gerekçelendiriniz.

24 "Doğal kaynaklarımıza sahip çıkmak vatanseverliktir." Bu düşünceyi bir örnekle açıklayınız.

25 Aşağıdaki bilgilerden hangisine ulaşmak için **maden** kaynaklarını gösteren bir kaynak incelenmelidir?

A) Çayın en çok yetiştiği il
B) Kayak merkezlerinin bulunduğu dağlar
C) Taş kömürünün çıkarıldığı yer
D) Fındık ihracatının yapıldığı limanlar

26 Tabloda temsilî üç kıyı kasabasının özellikleri verilmiştir. Hangi kasabada **yaz turizmi** en çok gelişebilir? Gerekçesini yazınız.

Kasaba	Yaz mevsimi	Kumsal	Deniz suyu
K	Kısa ve serin	Az	Soğuk
L	Uzun ve sıcak	Geniş	Ilık
M	Kısa ve yağışlı	Yok	Soğuk

27 Bir akarsuyun kıyısına kurulan fabrikanın atıklarını akarsuya bırakması, bu akarsuya bağlı hangi ekonomik faaliyetleri nasıl etkiler? **İki** örnek yazınız.

28 Aşağıdakilerden hangisi bir yerde **hayvancılığın** gelişmesini kolaylaştıran bir etkendir?

A) Deniz kıyısının uzun olması
B) Geniş çayır ve meraların bulunması
C) Maden yataklarının zengin olması
D) Tarihî yapıların çok olması

29 Ülkemizde bazı madenler (ör. petrol) ihtiyacımızı karşılayacak kadar çıkarılamamakta, eksik kısım başka ülkelerden alınmaktadır. Bu durumun ülke ekonomisine etkisini ve yerli kaynak arama çalışmalarının önemini açıklayınız.

30 Kendi ilinizde öne çıkan bir doğal kaynağı seçiniz. Bu kaynaktan yararlanarak yapılabilecek yeni bir ekonomik faaliyet önerip kaynağın korunması için alınması gereken **bir** önlemi yazınız.

Takıldığın soruyu işaretle, konu özetine tekrar göz at. Başarılar!
Diğer konuların çalışma kâğıtları ve deneme sınavları: **maarifpdf.com.tr**